① 机设卷子

一、选择题

1、零件的截面形状一定，当截面尺寸增大时，其疲劳极限值将随之_____。

a.增高　b.不变　c.降低

2、在两个被连接件中，当有一个被连接件较厚，且又经常拆卸时，宜选用_____。

a.普通螺纹连接　b.铰制孔螺纹连接　c.螺钉连接　d.双头螺柱连接

3、确定带传动的基本额定功率 P 的前提条件是 _____。

a.保证不打滑　b. 保证带不发生疲劳破坏

c.保证不打滑且不产生弹性滑动　d. 保证既不打滑也不发生疲劳破坏

4、当采用两个半圆键作轴毂连接时,两键应_____。

a.位于轴的同一母线上　b.相隔 180°　c.相隔 120°　d.相隔 90°

5、在承受横向载荷的普通紧螺栓连接中，螺栓杆_____作用。

a.受切应力　b.受拉应力　c.受扭转切应力和拉应力

d.既可能只受切应力又可能只受拉应力

6、预紧力为 F_0 的单个紧螺栓连接，受到轴向工作载荷 F 之后，螺栓杆受到的总载荷 F_2 _____ F_0+F。

a.大于　b.等于　c.小于

二、判断题

1、选用普通平键时，键的截面尺寸 $b\times h$ 和键长 L 都是根据强度计算确定的。（X）

2、V 带横截面中两工作面之间的夹角为 40°，所以带轮楔角也是 40°。（X）

3、变应力是由变载荷产生，也可能由静载荷产生。（V）

4、因普通带传动是摩擦传动，所以传动中会出现弹性滑动现象，但只要设计得合理，就可以避免弹性滑动。（X）

三、填空题

1、在承受轴向载荷的紧螺栓连接中，当预紧力 F_0 和轴向工作载荷 F 一定时，若降低螺栓的刚度 C_b，则螺栓中的总拉力将_____。

2、带传动正常工作时不能保证准确的传动比，是因为_____。

3、_____键连接既可用于传递转矩，又可承受单向的轴向载荷，但轴与轮毂的对中性较差。

4、在螺纹连接中，当两个被连接件之一太厚，不宜制成通孔采用普通螺栓连接时，往往可采用_____连接或_____连接。

5、同类型的普通 V 带与窄 V 带相比(如 A 型与 SPA 型，B 型与 SPB 型……)，_____ V 带的承载能力要高得多。

6、螺纹连接防松按工作原理可分为_____和_____两类，弹簧垫圈防松属于_____。

四、问答题

1、常用螺纹有哪几种类型?各用于什么场合?对连接螺纹和传动螺纹的要求有何不同?

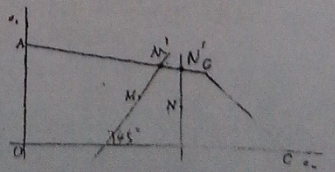
2、用同一材料制成的机械零件和标准试件的疲劳极限通常是不相同的，试说明导致不相同的主要原因。

3、V 带传动中，在输入转速和带的型号不改变的情况下，若需要增大 V 带的传动比，可采取哪些措施?这些措施对 V 带传动的承载能力有何影响?为什么?

五、分析题

1、零件等寿命疲劳曲线如图所示。请画出以下两种零件中变应力的极限应力点。

(1)紧螺栓连接中，外加轴向工作载荷为脉动循环，M 点为螺栓危险截



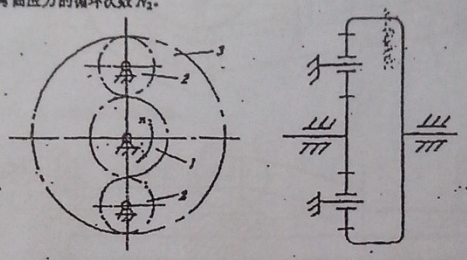
面的工作应力点；

(2)在平衡位置上下振动的弹簧，工作应力点为 N 点。 $\sigma_m=C$

2、在图示定轴轮系中，已知齿轮 1 主动，输入转速 n_1=500r/min，齿数 z_1=30，z_2=25，工作寿命 L_h=2000 h，若齿轮 1 转向不变，试确定：

(1)各齿轮的接触应力和弯曲应力的应力比 r 值；

(2)齿轮 2 的接触应力和弯曲应力的循环次数 N_2。



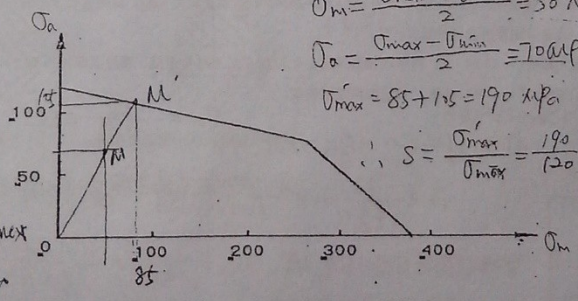
3、下图是某零件的极限应力线图。此零件的工作应力σ_{max}=120 MP$_a$，σ_{min}= -20 MP$_a$，属于 r=c 的情况。试求出此零件的安全系数 S。

$\sigma_m=\frac{\sigma_{max}+\sigma_{min}}{2}=50\ MPa$

$\sigma_a=\frac{\sigma_{max}-\sigma_{min}}{2}=70\ MPa$

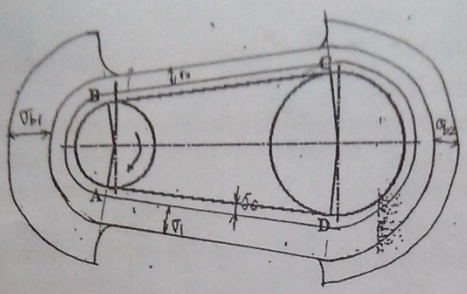
$\sigma'_{max}=85+105=190\ MPa$　$\sigma_{max}=120\ MPa$

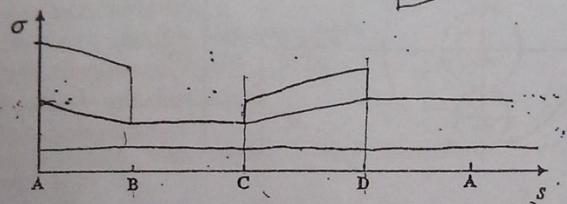
$\therefore S=\frac{\sigma'_{max}}{\sigma_{max}}=\frac{190}{120}=1.58$



$\sigma_{m1}=\frac{\sigma_{min}+\sigma_{max}}{2}$

4、在 $\sigma-s$ 图中画出带的应力分布图，标明各应力名称，并指出最大应力所在何处。



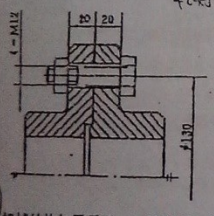


$\sigma_p = \frac{2T\times10^3}{kld} \le [\sigma_p]$　$k=\frac{h}{2}=4$　$l=L-b=50-10=40$　$d=35$

六、计算题

1、凸缘联轴器用一圆头普通平键与轴扣连接，已知键的尺寸为 $b\times h\times L=10\times8\times50$(单位均为 mm)，轴的直径 d=35mm，键连接的许用挤压应力[σ_p]=100MPa，试求该连接所允许传递的转矩。

图示凸缘联轴器，允许传递的最大转矩 T= 630N · m，两半联轴器采用 4 个 M12 的普通螺栓连接，接触面摩擦系数 f=0.12，防滑系数 K_s=1.2，螺栓材料的许用应力 [σ] =210MPa，试校核其连接强度。



$\sigma_{ca} = \frac{1.3F_0}{\frac{\pi}{4}d_1^2} \le [\sigma]$

$fF_0r_1 + fF_0r_2 + fF_0r_3 \ge K_sT$

$F_0 \ge \frac{K_sT}{f\sum r_i} = \frac{1.2\times630\times10^3}{0.12\times4\times\frac{130}{2}} = 70.23\,kN$

$\sigma_{ca} = \frac{1.3F_0}{\frac{\pi}{4}d_1^2} = \frac{1.3\times70.23\times10^3}{\frac{\pi}{4}\times12^2} = 278\,MPa > [\sigma]$

2、某机械结构如图所示，一滑轨用 4 个 M12(d_1=10.1mm)的普通螺栓固定在两立柱上，滑块的最大行程为 300mm，若螺栓材料的屈服极限 σ_s=320MPa，螺纹连接的安全系数 S=4，接合面摩擦系数 f=0.2，防滑系数 K_s=1.2。试确定滑块上所允许承受的最大载荷 F。

横向力作用：$fF_{01}\cdot2\ge K_sF \Rightarrow F_{01}\ge \frac{K_sF}{f\cdot2} = \frac{1.2F}{0.2\times4} = 1.5F$

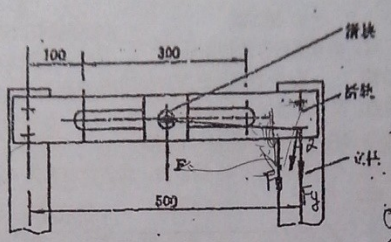
扭矩作用：$T=150F$　则所需预紧力：$F_{02}\ge \frac{K_s(\cdot)}{f\sum r_i} = 0.9F$

则所需预紧力为 $F_0=F_{01}+F_{02}=2.4F$

⇒螺栓承横向力时把预紧力计算在内。

螺栓强度：$\sigma_{ca}=\frac{1.3F_0}{\frac{\pi}{4}d_1^2} \le [\sigma] = \frac{\sigma_s}{S} \Rightarrow F \le \frac{\pi d_1^2\cdot\sigma_s}{12.48} = 2053.3N$

$\therefore F_{max}=2053.3N$



$\begin{cases} F_y = \frac{F}{4} = 0.25F \\ F_y' = \frac{K_S T}{\frac{z}{2} r_1} = 0.18F \end{cases}$

合成 $F_{zy} = F_y + F_y' = 0.43F$

则 $F_0 \geq \frac{K_S F_{zy}}{f} = 2.58F$

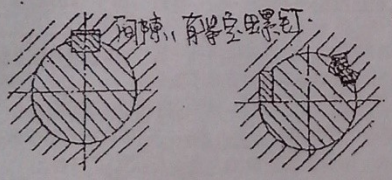
$\sigma_{ca} = \frac{1.3F_0}{\frac{\pi}{4} d_1^2} \leq [\sigma] = \frac{\sigma_s}{S}$

$F \leq \frac{0.2\pi\sigma_s d_1^2}{5} = 1910N$

七、试指出下列图中的错误结构，并画出正确的结构图。



a.螺钉　　b.双头螺柱连接　　c.吊环螺钉连接



注意两零件方向，经下轮螺栓承担一个方向。

d.平键连接　　e.传递双向转矩的切向键连接

合缝上表面和轮毂表面应留有间隙。

一、选择题

1. 机器在运转时，两轴随时结合或者分离，应采用（　　）。

a. 联轴器　　b. 离合器　　c. 制动器

2. 在带传动中，当小轮包角 $\alpha<120°$ 时，所采取的有效措施是（　　）。

a. 减小中心距　　b. 增大中心距　　c. 中心距不变增大传动比

3. 设计链传动时，链节数最好取为偶数，其目的是（　　）。

a. 提高链条强度　　b. 改善传动平稳性　　c. 避免过渡链节

4. 某减速器中的一对直齿圆柱齿轮传动，小齿轮材料为 45 钢调质，大齿轮材料为 45 钢正火，润滑状况良好，设计时应选择（　　）公式。

a. $\sigma_H = 2.5Z_E\sqrt{\frac{KF_t}{bd_1}\frac{u\pm1}{u}} \le [\sigma_H]$　　b. $d_1 \ge 2.32\sqrt[3]{\frac{KT_1}{\phi_d}\frac{u\pm1}{u}\left(\frac{Z_E}{[\sigma_H]}\right)^2}$

c. $\sigma_F = \frac{2KT_1Y_{Fa}Y_{Sa}}{\phi_d m^3 z_1^2} \le [\sigma_F]$　　d. $m \ge \sqrt[3]{\frac{2KT_1Y_{Fa}Y_{Sa}}{\phi_d z_1^2[\sigma_F]}}$

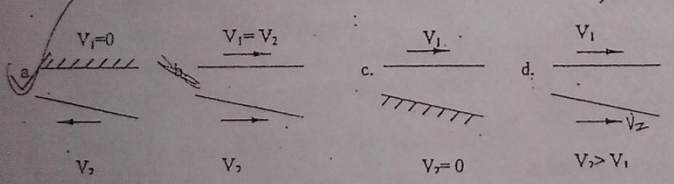
5. 在高速重载的链传动中应选用（　　）较好。

a. 大节距的单排链　　b. 小节距的多排链

6. 当斜齿圆柱齿轮传动的螺旋角β为下列哪种情况时，重合度最大。（　　）

a. 8°　　b. 10°　　c. 12°

7. 下列图示滑动轴承油楔，哪一种情况可能形成动压润滑？（　　）



8. 一般参数的闭式软齿面齿轮传动最可能出现的失效形式是＿＿，开式齿轮传动最可能出现的失效形式是＿＿。

a. 轮齿折断　　b. 齿面磨损

c. 齿面疲劳点蚀　　d. 齿面胶合

9. 在圆柱齿轮传动中，通常使小齿轮齿宽大于大齿轮齿宽，其目的是＿＿。

a. 提高小齿轮齿面接触疲劳强度　　b. 提高小齿轮齿根弯曲疲劳强度

c. 补偿制造和安装误差，保证沿全齿宽接触

10. 开式齿轮传动的计算准则是＿＿。

a. 只按齿面接触疲劳强度设计

b. 只按轮齿弯曲疲劳强度设计

c. 先按轮齿弯曲疲劳强度设计，再按齿面接触疲劳强度校核

d. 先按齿面接触疲劳强度设计，再按轮齿弯曲疲劳强度校核

11. 当斜齿圆柱齿轮的螺旋角β等于＿＿时，产生的轴向力较大。

a. 10°　　b. 8°　　c. 12°

12. 阿基米德蜗杆传动，在其中间平面内蜗杆具有＿＿齿廓。

a. 直线齿廓　　b. 圆弧　　c. 阿基米德螺旋线

13. 计算蜗杆传动的传动比时，公式＿＿是错误。

a) $i=\frac{n_1}{n_2}$ b) $i=\frac{Z_1}{Z_2}$ c) $i=\frac{d_2}{d_1}$

14. 工作时同时承受弯矩和扭矩作用的轴称_____。

a.心轴 b.转轴 c.传动轴

15. 自行车的后轴属于_____，中轴属于_____。

a.心轴 b.转轴 c.传动轴

16. 轴的计算弯矩 $M=\sqrt{M2+(\alpha T)2}$，当轴的扭转剪应力为对称循环时应取α=_____，当轴的扭转剪应力为脉动循环时，应取α=_____。

a.0.3 b. 0.6 c. 1.0

17. 主要承受径向载荷，转速较高的支承宜选用_____。

a.调心滚子轴承 b.圆锥滚子轴承

c.深沟球轴承 d.推力轴承

18. 在安装、润滑、维护运转均正常的条件下，滚动轴承的主要失效形式是_____。

a.胶合 b.塑性变形 c.磨损 d.疲劳点蚀

19. 下列联轴器中，属于弹性联轴器的是_____。

a.凸缘联轴器 b.尼龙柱销联轴器

c.齿轮联轴器 d.万向联轴器

20. 在下列四种向心滚动轴承中，_____型除可以承受径向载荷外，还能承受不大的双向轴向载荷。

(1)50000 (2)N0000 (3)NA0000 (4)50000

21. 在载荷比较平稳，冲击不大，但两轴轴线具有一定程度的相对偏移的情况下，两轴间通常宜选_____联轴器。

(1)刚性 (2)无弹性元件的挠性 (3)有弹性元件的挠性 (4)安全

22. 采取_____的措施不能有效地改善轴的刚度。

(1)改用其它高强度钢材 (2)改变轴的直径 (3)改变轴的支承位置 (4)改变轴的结构

23. 在滑动轴承材料中，_____通常只用于作为双金属或三金属轴瓦的表层材料。

(1)铸铁 (2)轴承合金 (3)铸造锡磷青铜 (4)铸造黄铜

24. 齿轮强度计算中引入动载系数 Kv 是考虑了_____。

(1)外加于齿轮上的载荷状态，如载荷不均匀或有一定程度的冲击

(2)齿轮制造和装配误差及啮合刚度的变化所引起齿轮传动的动载荷

(3)前面(1)与(2)两类因素的总和

25. 按弯扭合成强度条件计算轴的应力时，要引入系数α，这个α是考虑_____

(1)轴上有键槽而削弱轴的强度所引入的系数

(2)按第三强度理论合成正应力与切应力时的折合系数

(3)正应力与切应力的应力比不同而引入的系数

26. 滚动轴承与液体动力润滑滑动轴承比较，在高速运转条件下，滚动轴承的_____。

(1)噪声较大 (2)承受冲击载荷能力较高 (3)寿命较长

二、填空题

1. 滚动轴承的基本额定动载荷 C，是指在该载荷作用下，轴承的_____寿命恰好为_____。

2. 增加蜗杆头数，可以_____传动效率，但蜗杆头数过多，将会给_____带来困难。

3. 滚子链的铰链磨损后，链的实际节距变长，若链轮的磨损可忽略不计，这时链条在传动过程中易在_____链轮上发生脱链。

4. 螺纹联接防松按工作原理可分为_____和_____两类，弹簧垫圈防松属于_____。

5. 在进行直齿圆锥齿轮传动的强度计算时，是按圆锥齿轮_____处的_____来建立该圆锥齿轮强度计算模型的。

6. 其它条件不变，若将作用在轴承上的当量动载荷增加一倍，则该轴承的基本额定

求的 1/3。

7. 渐开线圆柱齿轮的齿面接触应力在齿廓各处是不同的，在节点处单对齿啮合最高边界点处的接触应力最大，但一般的计算以 全部载荷作用于节点 处的接触应力作为计算应力。

8. 在承受轴向载荷的紧螺栓联接中，当预紧力 F_0 和轴向工作载荷 F 一定时，若降低螺栓的刚度 C_b，则螺栓中的总拉力将 降低。

9. 在转轴的结构设计中，轴的最小直径 d_{min} 是按 扭转强度条件 初步确定的。

10. 蜗杆传动的失效形式与齿轮传动的失效形式相类似，其中蜗杆传动最易发生 铁品粘着磨损失效。

11. 带传动正常工作时不能保证准确的传动比，是因为 存在打滑弹性滑动。

12. 对于闭式软齿面齿轮传动，在传动尺寸不变并满足弯曲疲劳强度要求的前提下，齿数宜适当取多些。其目的是 齿数增多使模数减小，降低齿高，降低齿面滑动速度，从而减轻磨损以防止胶合能性，提高齿面抗疲劳点蚀和抗随机载荷力。

13. 滑块联轴器属于 无弹性元件挠性 联轴器。

14. 滚子链传动中，限制链轮最少齿数的目的是 减小多边形效应。

15. 相同系列和尺寸的球轴承与滚子轴承相比较，球 轴承的承载能力高，滚 轴承的极限转速高。

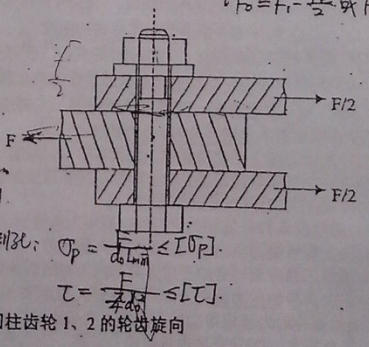
16. 楔 键联接既可用于传递转矩，又可承受单向的轴向载荷，但轴与轮毂的对中性较差。

三. V带传动，传递功率 10kw，带速 V=10m/s，若知紧边拉力与松边拉力满足 $F_1 = 2F_2$，求紧边拉力及有效圆周力。

$P = \frac{F_e v}{1000} \Rightarrow F_e = \frac{1000P}{v} \Rightarrow F_e = F_1 - F_2$ ⊕ $F_1 = 2F_2 \Rightarrow F_1 = 2F_e$

$F_0 = F_1 - \frac{F_e}{2}$ 或 $F_0 = F_2 + \frac{F_e}{2}$

四. 图示螺栓联接中采用 M20 的螺栓，小径 d_1=17.294mm，其许用拉应力[σ]=160MPa，被联接件接合面间的摩擦系数 f= 0.15，防滑系数 K_s=1.2，试计算该联接允许传递的静载荷 F。（14 分）



$F \le F_0 \cdot f \cdot i \ge K_s \cdot F_x$

$F = F_0 \cdot f \cdot i = F_0 \cdot 0.15 \times 2 = \frac{F_0}{4}$

$\sigma_{ca} = 1.3F_0 / \frac{\pi}{4} d_1^2 = 1.3 \times 4F_0 / (\pi \times 17.294^2) = 5.53 \times 10^{-3} F_0 \le [\sigma]$

$\therefore F_0 \le 28.9\,kN$. $\therefore F \le 115.7\,kN$ ② $\sigma_{ca} = \frac{1.3F_0}{\frac{\pi}{4}d_1^2} \le [\sigma]$

接触强度：$\sigma_p = \frac{F}{d_0 L_{min}} \le [\sigma_p]$.

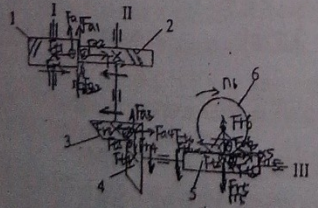
$\tau = \frac{F}{z \frac{\pi}{4} d_0^2} \le [\tau]$.

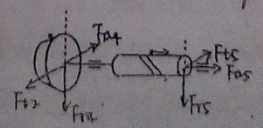
五. 图示传动系统中，主动轮 1 转向如图示。

（1）在图中标出各轮的转动方向

（2）为使Ⅱ轴轴承所受的轴向力较小，试确定斜齿圆柱齿轮 1、2 的轮齿旋向

（3）画出 4、5 两轮的受力图

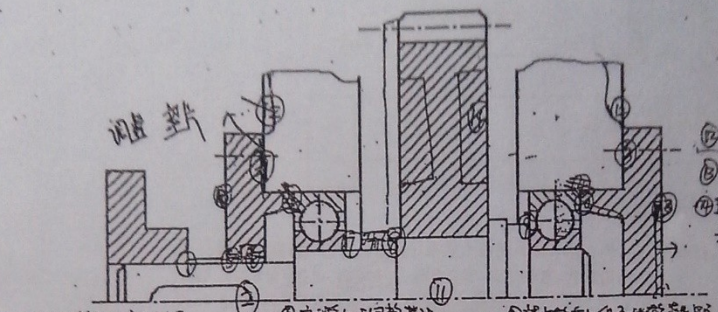




$l_y = \frac{10^6}{k_{on}} \left(\frac{C}{P}\right)^{\varepsilon}$

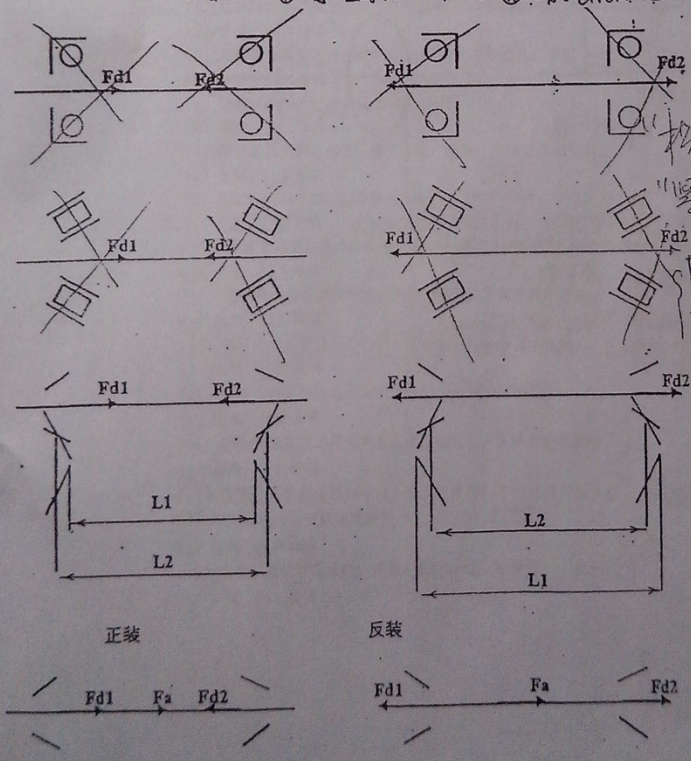
$P = f_p (X F_r + Y F_a)$

六、结构改错题：分析图示结构设计是否合理，请将不合理之处编上序号，并说明错误原因及改正意见。



①联轴器应有轴向定位
②联轴器宜增加定位
③凸台与端盖间应加调整垫片
④应增加调整垫片
⑤端盖与轴间应有间隙
⑥应增设油沟、
⑦应增加密封及轴肩
⑧装齿轮处轴段长度应短
⑨定位轴肩应低于轴承内圈高度
⑩端盖与轴不接触
⑪无需加长两旁轴肩

七、滚动轴承的计算



"松"为轴向力
"紧"为平衡计算力

$F_{a1}=\max\{F_{d1}, F_{ae}\pm F_{d2}\}$

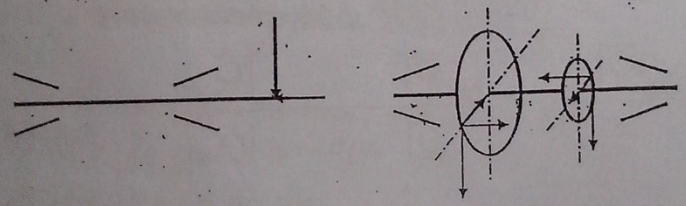
$F_{a2}=\max\{F_{d2}, F_{ae}\pm F_{d1}\}$

$$F_{a1} = \max\begin{cases} \overset{\rho}{F}_{d1} \\ \overset{\rho}{F}_{d2} + \overset{\rho}{F}_{a} \end{cases}$$

$$(=F_{d2} - F_a)$$

$$F_{a2} = \max\begin{cases} \overset{\rho}{F}_{d2} \\ \overset{\rho}{F}_{d1} + \overset{\rho}{F}_{a} \end{cases}$$

$$(=F_{d1} + F_a)$$



$$F_{a1} = \max\{F_{d1},\ F_{ae} \pm F_{d2}\}.$$

$$F_{a2} = \max\{F_{d2},\ F_{ae} \pm F_{d1}\}.$$